www.e-pakniyat.ir @tenclasschannel

به نام خداوند جان و خرد استان خراسان رضوی ناحیه ۲مشهد	شماره صندلی:	پرسش آزمون درس: جغرافیای ایران و استان شناسی خراسان رضوی	پایه : دهم رشته : کلیه رشته ها	

دبیرستان: نمونه امام حسن (ع)مصلی نژاد	دی ماه ۱۳۹۵	نیم سال اول	ساعت شروع:
نام و نام خانوادگی:	شماره کلاس:	نام دبیر:محمد رضا شمسی	زمان پاسخگویی: ۷۵ دقیقه

ردیف	متن پرسش ها	بارم
۱	گزینه صحیح را انتخاب کنید : ۱-علت تنوع محصولات کشاورزی ایران چیست ؟ الف) وسعت زیاد ☐ ب)تنوع آب و هوای ☐ ج)موقعیت جغرافیایی ☐ د)وسعت زمین های زراعی ☐ ۲-کدام مورد از ارزش های اقتصادی دشت ها محسوب می شود ؟ الف) ذخایر آب ☐ ب)دامپروری ☐ ج)تولید انرژی خورشیدی و بادی ☐ د)حمل و نقل کالا ☐ ۳-نقشه های هواشناسی براساس کدام اطلاعات روزانه تهیه می شود ؟ الف) فشار ، رطوبت ، دما ☐ ب)فشار ، رطوبت ،سرعت باد ☐ ج)ابرناکی ،رطوبت ،دما ☐ د)توده هوا، فشار رطوبت ☐ ۴-کدام گزینه از راه های مقابله با ریزگرد ها **نمی باشد** ؟ الف) احداث سد ☐ ب) تأمین حقابهٔ رودخانه های ☐ ج)احیای تالاب ها ☐ د) بیابان زدایی ☐ ۵- عامل شکل گیری بیابان لوت چیست ؟ الف) قرار گرفتن در داخل کوهستان ☐ ب)فشار زیاد جنب حاره ☐ ج)دوری از دریا ها ☐ د)موارد الف و ب ☐	۱/۲۵ نمره
۲	جاهای خالی را با کلمات مناسب پر کنید : الف) در دهه های اخیر ظهور ..... باعث شده انسان در محیط تاثیر بسیاری بگذارد . ب)در هر پژوهش ..... ، نقش راهنما دارد و به فعالیت های محقق جهت می دهد . د)ایران از موقعیت نسبی ممتازی بر خوردار است زیرا در مجاورت خلیج فارس و..... قرار دارد. و)منطقه اذربایجان توسط .....از کناره ای دریای خزر جدا می می شود .	۱نمره
۳	پاسخ کوتاه بدهید : الف) تعریف اراتوستن از جغرافیاچیست؟ ب)کدام یک ازسوالات جغرافیا با رکن اساسی این علم ارتباط دارد؟ ج) چه عاملی خاورمیانه را به بازار مصرف بزرگی تبدیل کرده است ؟ د)علت فعالیت چشمه های جوشان گلی (گل فشان ها) چیست ؟ و) عامل شکل گیری بزرگترین کمربند بیابانی کره زمین چه پدید ه ای است؟	۱/۲۵ نمره
۴	از عملکرد های سود جویانه انسان در رابطه با محیط دو مورد مثال بزنید ؟	۱ نمره
۵	ابزار های گرد آوری اطلاعات میدانی را نام ببرید ؟	./۷۵ نمره

www.e-pakniyat.ir @tenclasschannel

۶	هریک از موارد زیر، مربوط به کدامیک از مراحل تحقیق و پژوهش در جغرافیا است ؟ الف) حذف اطلاعات غیر ضروری : ب) ارتباط مستقیم با مکان: د) رد یا تایید فرضیه : د) بررسی پژوهش دیگران در مورد موضوع تحقیق:	۱ نمره
۷	نمودار مقابل را کامل کنید . 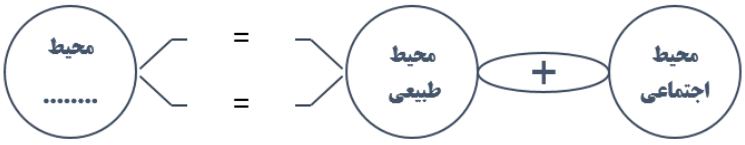	/۵ نمره
۸	چه رابطه ای بین عرض جغرافیا و آب و هوای ایران وجود دارد؟	۱ نمره
۹	دسترسی به آب های آزاد برای کشور ایران چه مزیت های به دنبال دارد ؟(سه مورد ذکر کنید)	/۷۵ نمره
۱۰	جدول زیر را کامل کنید : عوامل طبیعی تغییر دهنده زاگرس: ۱-..... ۲-..... عوامل انسانی تغییر دهنده زاگرس: ۱-..... ۲-.....	۱
۹	برای جلگه های شمالی و جنوبی کشور هر یک به تفکیک دو ارزش اقتصادی ذکر کنید ؟ جلگه های شمالی : جلگه های جنوبی :	۱ نمره
۱۰	موارد زیر را با توجه به نقشه پاسخ دهید. ۱- نام رود خانه؟..... ۲- نام جلگه؟..... ۳- نام قله؟..... 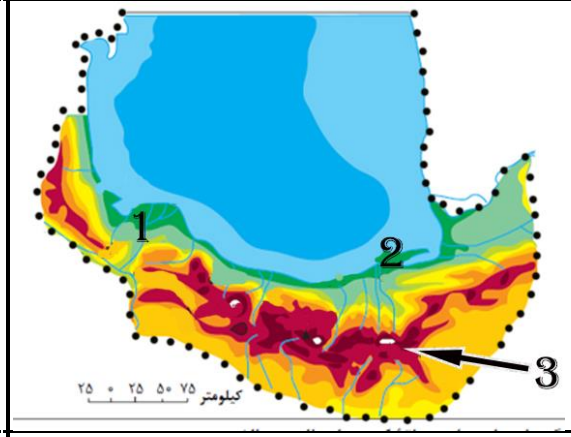	/۷۵
۱۱	عامل هریک از پدیده های زیر چیست؟(پاسخ کوتاه بدهید) الف: اعتدال دمای سواحل دریای خزر؟ ب: باران های سیلابی در سیستان و بلوچستان؟ ج: شکل گیری بیابان دشت کویر؟ د: شکل گیری بیابان طبس؟	۱ نمره
۱۲	به دلخواه نام چهار مورد از توده های هـوا را در محـل آن روی شکل وارد کنید 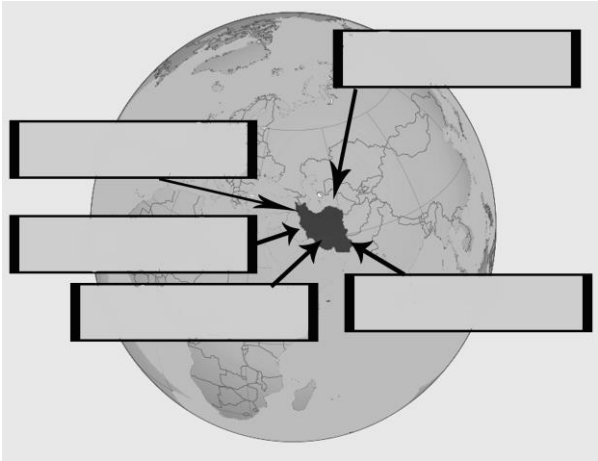	۱ نمره

www.e-pakniyat.ir @tenclasschannel

۱۳	وارونگی دما چیست ؟ چرا باعث تشدید آلودگی هوا می شود؟	۱ نمره
۱۴	موارد زیر را با توجه به نقشه پاسخ دهید. ۱- نام رشته کوه؟..... ۲- نام قله؟..... ۳- نام جلگه ؟..... 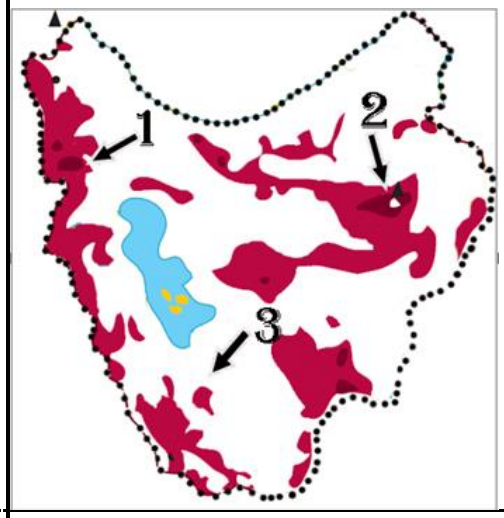	./۷۵ نمره
	سوالات کتاب استان شناسی خراسان رضوی	
۱۵	**دو مورد از راهکاری حفاظت منابع آب استان را نام ببرید.**	۱ نمره
۱۶	**علت وارونگی دما در مشهد چیست ؟**	۱ نمره
۱۷	**کو ه های جغتای دشت ..... را از دشت ..... جدا می کند.**	۱ نمره
۱۸	**دو مورد از مزایای بازیافت زباله را بنویسید.**	۱ نمره
۱۹	موارد زیر را با توجه به نقشه پاسخ دهید . ۱- نام رشته کوه ؟ ۲- نام رشته کوه؟ ۳- نام رود خانه ؟ ۴- نام گسل ؟ 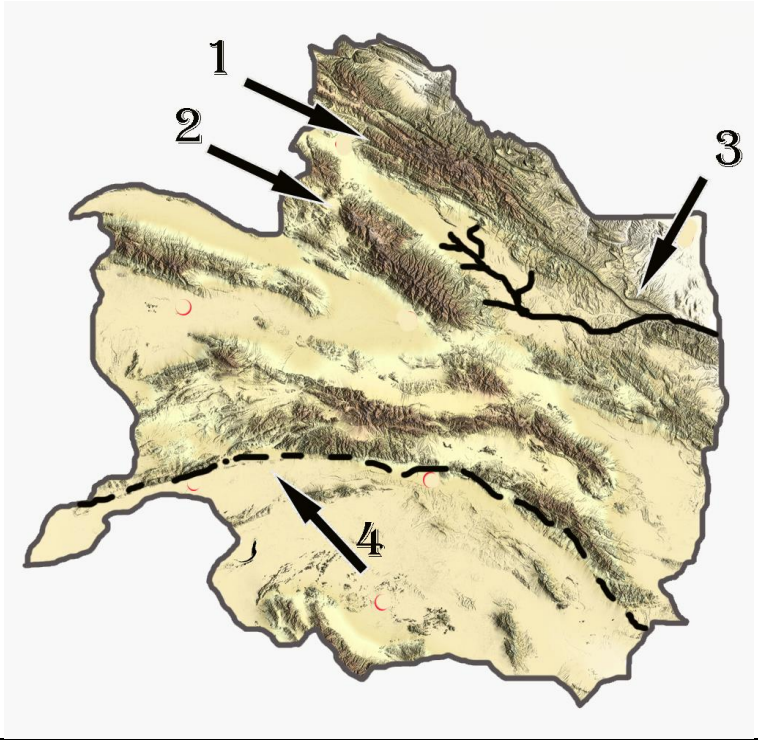	۱ نمره
	جمع نمرات	۲۰

پیروز باشید